Klockan: hela och halva timmar

Matteblad · Åk 2

Vad är klockan? Skriv tiden under varje klocka

Åk 2 · hela och halva timmar

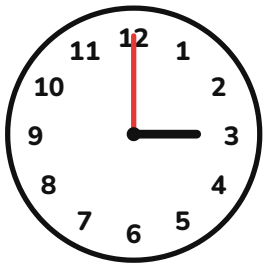
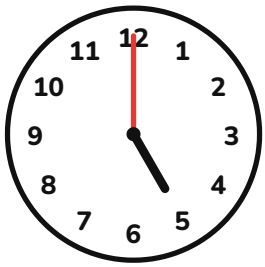


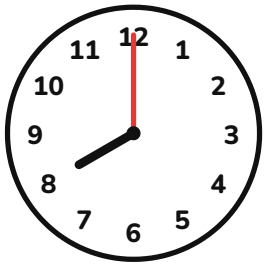
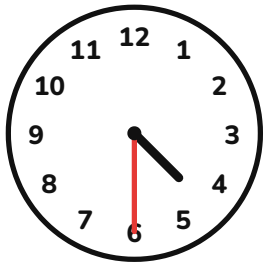

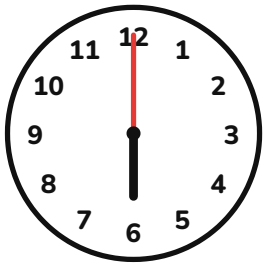
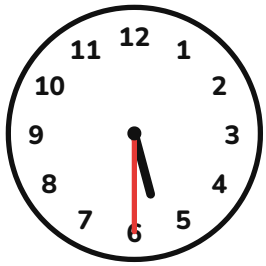


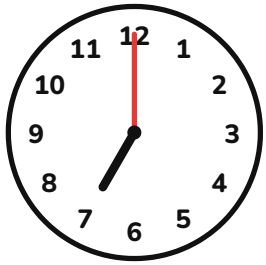

Namn: _____

Facit: Klockan: hela och halva timmar

Facit för vuxna

Facit

1. 3:00 (klockan 3)
2. 5:00 (klockan 5)
3. 1:00 (klockan 1)
4. 7:30 (halv 8)
5. 8:00 (klockan 8)
6. 4:30 (halv 5)
7. 12:30 (halv 1)
8. 6:00 (klockan 6)
9. 5:30 (halv 6)
10. 4:00 (klockan 4)
11. 1:30 (halv 2)
12. 7:00 (klockan 7)

För vuxna: rätta tillsammans och låt barnet räkna om det som blev fel.