Klockan: hela och halva timmar

Matteblad med jultema · Åk 2

Vad är klockan? Skriv tiden under varje klocka

Åk 2 · hela och halva timmar

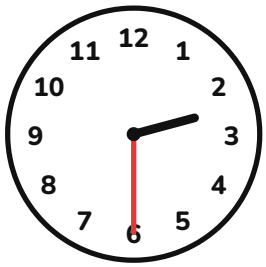

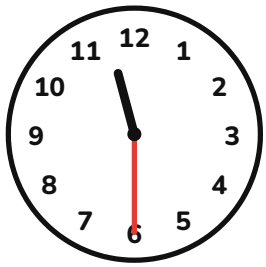


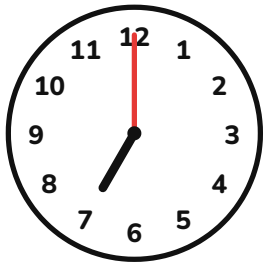
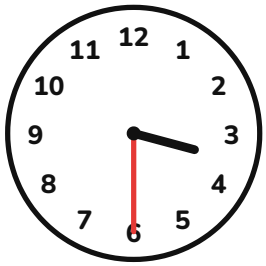
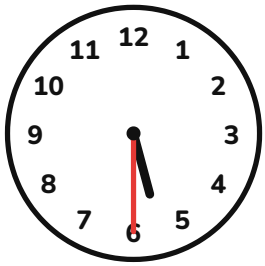


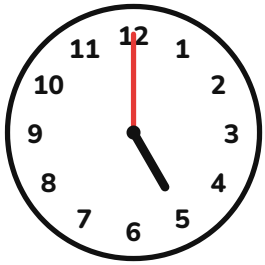
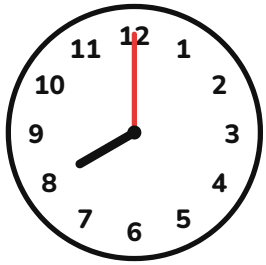

Namn: _____

Facit: Klockan: hela och halva timmar

Facit för vuxna

Facit

1. 2:30 (halv 3)
2. 10:30 (halv 11)
3. 11:30 (halv 12)
4. 1:30 (halv 2)
5. 10:00 (klockan 10)
6. 7:00 (klockan 7)
7. 3:30 (halv 4)
8. 5:30 (halv 6)
9. 2:00 (klockan 2)
10. 7:30 (halv 8)
11. 5:00 (klockan 5)
12. 8:00 (klockan 8)

För vuxna: rätta tillsammans och låt barnet räkna om det som blev fel.