Lire l’heure : heures et demies

CP · cycle 2

Quelle heure est-il ? Heures pleines et demies.

Lire l’heure : la grande aiguille sur le 6, c’est « et demie »

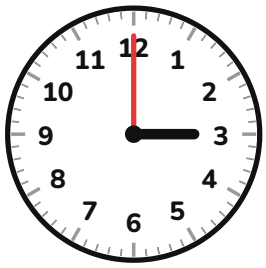
h


h


h

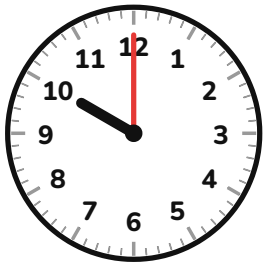
h


h


h

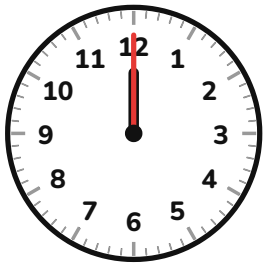
h


h


h

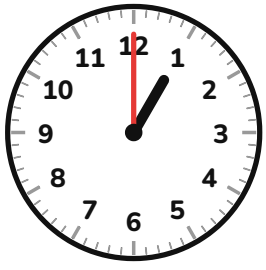
h


h


h

Prénom : _____

Corrigé : Lire l’heure : heures et demies

Les réponses de la fiche, CP

Corrigé

1. 3 h (3 heures)
2. 6 h 30 (6 heures et demie)
3. 1 h 30 (1 heure et demie)
4. 10 h (10 heures)
5. 11 h 30 (11 heures et demie)
6. 9 h 30 (9 heures et demie)
7. 12 h (12 heures)
8. 2 h 30 (2 heures et demie)
9. 12 h 30 (12 heures et demie)
10. 1 h (1 heure)
11. 4 h 30 (4 heures et demie)
12. 10 h 30 (10 heures et demie)

Page pour l’adulte. Vous pouvez la garder pour corriger ensemble.