El reloj: horas en punto y medias

Ficha de matemáticas de Navidad · 2º de primaria

¿Qué hora es? Escribe la hora debajo de cada reloj

2º de primaria · horas en punto y medias

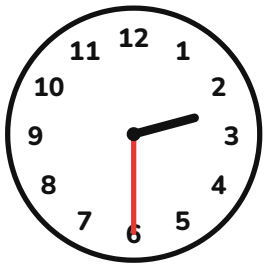




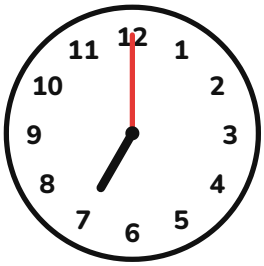
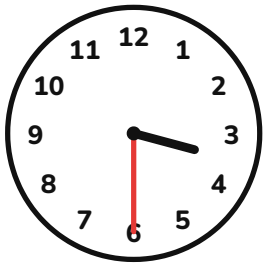
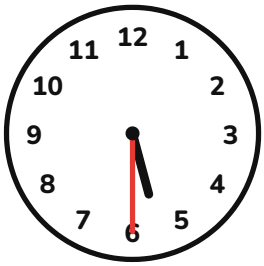





Nombre: _____

Soluciones: El reloj: horas en punto y medias

Hoja de soluciones para adultos

Soluciones

1. 2:30 (y media)
2. 10:30 (y media)
3. 11:30 (y media)
4. 1:30 (y media)
5. 10:00 (en punto)
6. 7:00 (en punto)
7. 3:30 (y media)
8. 5:30 (y media)
9. 2:00 (en punto)
10. 7:30 (y media)
11. 5:00 (en punto)
12. 8:00 (en punto)

Para adultos: corrijan juntos y repitan los ejercicios que salieron mal.