Rechnen mit Geld

Mathe-Arbeitsblatt · Klasse 2

Zähle das Geld und schreib den Betrag in Cent

Klasse 2 · Euro-Münzen: 1, 2, 5, 10, 20 und 50 Cent



= ____ ct



= ____ ct



= ____ ct

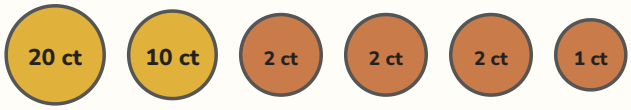

= ____ ct

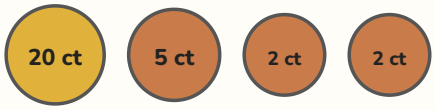

= ____ ct



= ____ ct

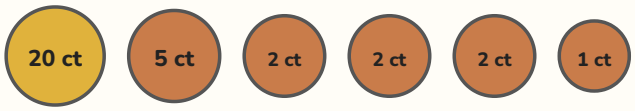

= ____ ct



= ____ ct

Name: _____

Lösungen: Rechnen mit Geld

Lösungsblatt für Erwachsene

Lösungen

1. 40 ct	2. 81 ct	3. 77 ct	4. 37 ct
5. 29 ct	6. 90 ct	7. 32 ct	8. 111 ct

Für Erwachsene: gemeinsam kontrollieren und einen Fehler als Anlass nehmen, noch einmal zu rechnen.